Βρίσκω το μισό και το διπλάσιο στους αριθμούς 0-100(2)

Μια λεοπάρδαλη έχει 28 βούλες. Η φίλη της έχει τις **μισές**. Βρες πόσες έχει και ζωγράφισέ τις.



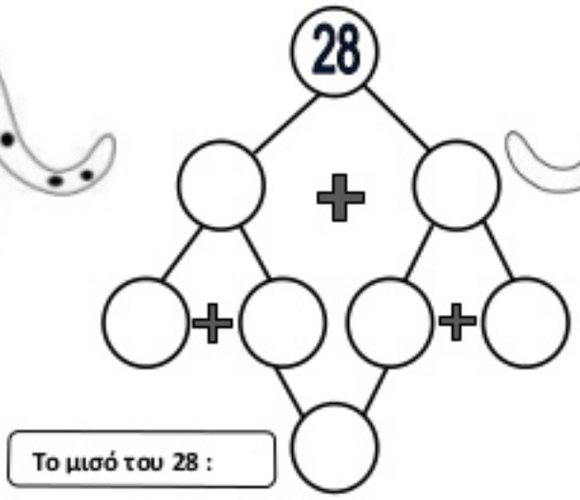



Ο κουμπαράς του Σίμου έχει 44 ευρώ. Ο κουμπαράς του Νίκου έχει τα **μισά**. Βρες πόσα ευρώ έχει ο κουμπαράς του Νίκου και ζωγράφισέ τα.

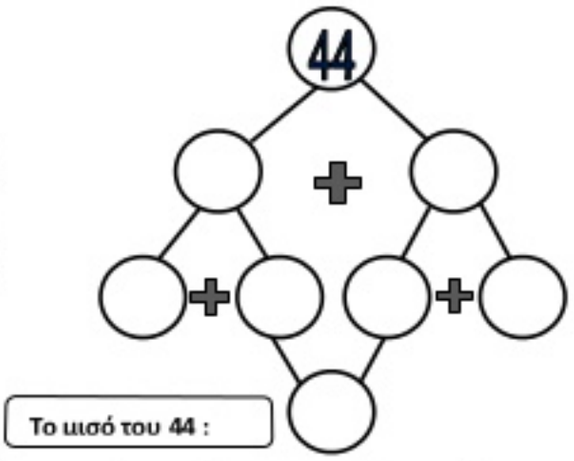
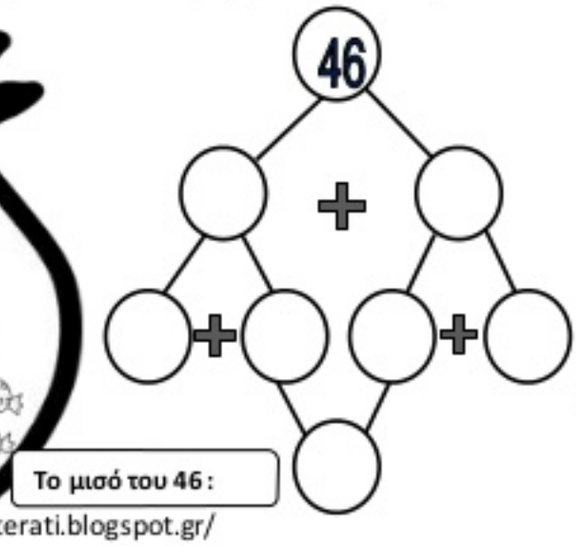
Η σακούλα της Μαριάννας έχει 46 καραμέλες. Η σακούλα της Κατερίνας έχει τις **μισές**. Βρες πόσες είναι και ζωγράφισέ τις.